# Special Relativity

Fall 2020

lecture Note 4

نسبیت خاص

درس نامه ۴

پاییز ۱۳۹۹

در درس نامه های قبل، درباره دستگاه مختصات مرجع، کمی به تفصیل صحبت کردیم.

فرض کنید که دستگاه مختصات لخت $S$ را با مختصه دکارتی Cartesian Coordinate داشته باشیم. حال در نظر بگیرید که دستگاه لخت دیگری $S'$ با سرعت ثابت $\vec{v}$ نسبت به دستگاه $S$ در حال حرکت است. با توجه به تقارنیت گالیله می توانیم مبدا مختصات (انتقال در مبدا مکان - زمان) و جهت بردارهای مختصه (دوران) طوری مرزوی هم قرار دهیم که در یکسانی استاندارد قرار گیرند.

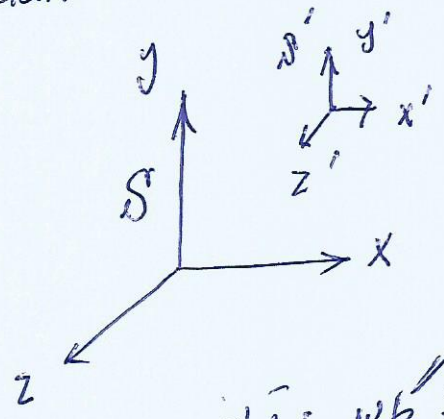


از این روی می توانیم مولفه های مکانی را در $x$ و زمان $t$ را داشته باشیم

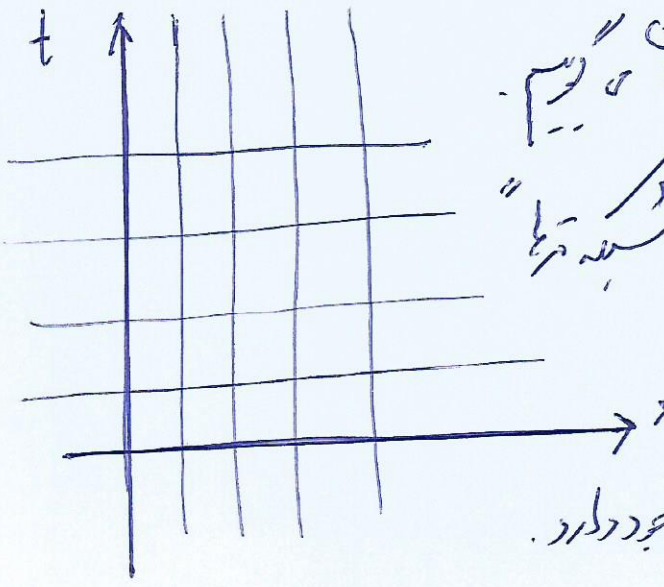


این نمودار - نمودار فضا-زمان می گوییم.

همچنین فرض می کنیم شبکه تراهای زمانی در همه نقاط از این نمودار وجود دارد.

هدف این است که رویدادها را در دو دستگاه $S$ و $S'$ که اندازه‌گیری کنیم

رویداد در $S$ با $(x,y,z,t)$ و در $S'$ با $(x',y',z',t')$ مشخص می‌شود.

اگر در کلیت بحث استاندارد هستیم $(t,x)$ و $(t',x')$ یک رویداد را در دو دستگاه مشخص می‌کنند. در حوزه شبکه (فضازمان) می‌توانیم فرض کنیم که در هر نقطه یک ناظر یا ساعت $\phi$ نشسته است که این ساعت‌ها را می‌دانیم که چگونه هماهنگ کنیم.

## اصول نسبیت خاص:

۱) تمام دستگاه‌های لخت قوانین فیزیک یکسان می‌بینند.

* تعریف دستگاه لخت را با دقت انجام دادیم ** "you cannot distinguish frames"

۲) سرعت نور در خلا دارای $C = 299792458\ m/s$ مقدار ثابت فیزیک است!

و در تمام دستگاه‌های لخت این مقدار ثابت است.

از این دو دستگاه مختصات $S$ را به صورت زیر رسم می‌کنیم. واحدها طول و زمان را به گونه‌ای برمی‌گزینیم که $C=1$ شود. در نتیجه خطوط با زاویه $45^\circ$ نسبت به محورها نور است.

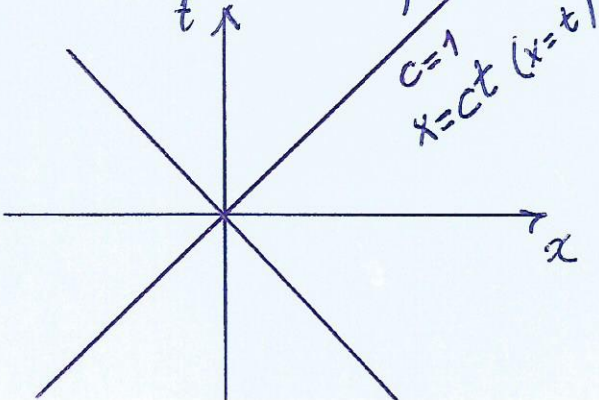

3/ این خط $x = ct$ نشان‌دهنده مسیر نور در دستگاه $S$ است و اگر در واحدها می‌نشینیم که $c = 1$، $x = t$ است.

حال فرض کنید که دستگاه $S'$ با سرعت $v$ از چارچوب استاندارد شروع به حرکت می‌کند.

حال این ناظر را در دستگاه مختصات $S$ رسم می‌کنیم.

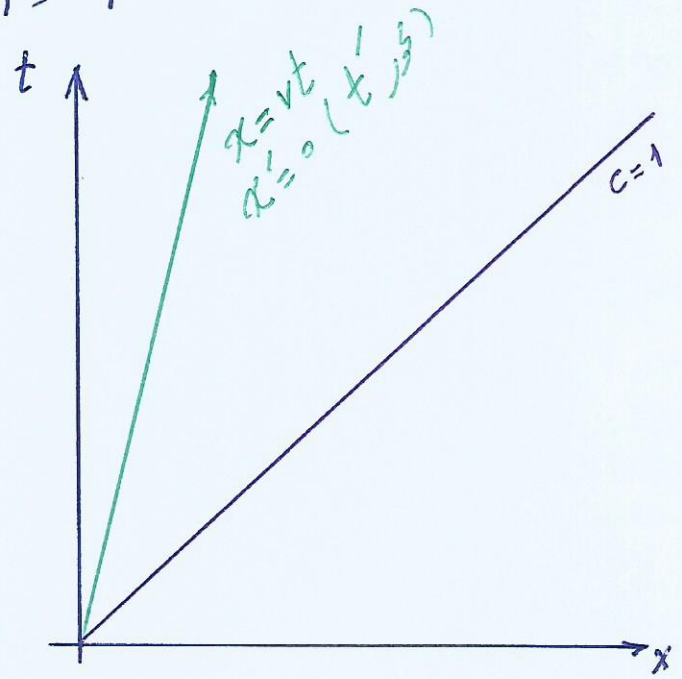


خط سبز رنگ $x = vt$ نشان‌دهنده مسیر مبدا مختصات دستگاه $S'$ است.

برای دستگاه $S'$ به این شکل

$x' = 0$ را با محور $t'$ ها می‌نامیم.

حال فرض کنید که تبدیلات گالیله به صورت زیر برقرار باشد

$$\begin{cases} x' = x - vt \\ t' = t \end{cases}$$

سوال: سرعت نور در دستگاه $S'$ که با تبدیلات گالیله چقدر است؟

$$x' = ct - vt = (c - v)t = (c - v)t'$$

این یعنی سرعت نور در دستگاه $S'$، $c - v$ است! و این در تناقض با اصل نسبیت است! حتی برای نوری که در جهت $x = -ct$ حرکت می‌کند.

$$x = -ct \qquad x' = -ct - vt = -(c + v)t$$

! خب، یک چیزی در مورد تبدیلات درست نیست! آخر است نور در دستگاه ها کند با سرعت ثابت حرکت کند.

Something is wrong with this simple-minded Coordinate transformation.

مسئله را چگونه حل کنیم. پیش از آن که قدم پیش بگذاریم باید مسئله هندسی را بفهمیم برای درک این مسئله ما می توانیم ساعت هایمان را با ۳ ناظر (که هرکدام یک لیزر - چراغ قوه - پالس نور دارند) هندسی کنیم. فرض کنید سهراب، رودابه و سیاوش در دستگاه که در قواصل معینی نشسته اند، می خواهند ساعت هایشان را هم زمان کنند.

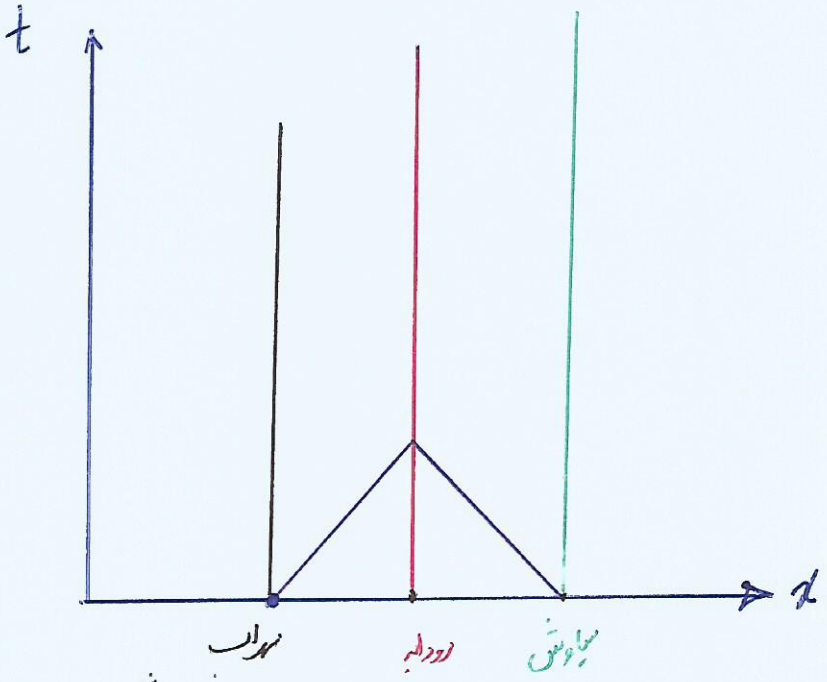


خط شکل جهان خط سهراب ایستاده است و سه جهان خط سیاوش سهراب و سیاوش هنوز دارند که ساعت هایشان را هم زمان کنند در زمان $t=0$ (ثانیه ۵ عصر) هر دو پالس نور به سهراب هم نرسیده. رودابه دقیقاً در میان راه آن دو قرار دارد.

5

در صورتی که رویداد دو پالس نوری را همزمان دریافت کند. ساعت‌های سرا سب و سیارش همزمان است. پس خطوط همزمانی خطوط موازی با محور x است.

(در حالتی که S ساکن باشد.)

این مثال نظر اینشتین را در نسبیت خاص به خوبی نشان می‌دهد.

یک نقطه دیگر، فرض کنید رویداد آینه‌ای داشته باشد و پالس دریافتی سرا سب را بازپس بفرستد. در این صورت سرا سب می‌تواند موقعیت رویداد برخورد پالس با آینه سرویداد را ثبت کند. مانند شکل که

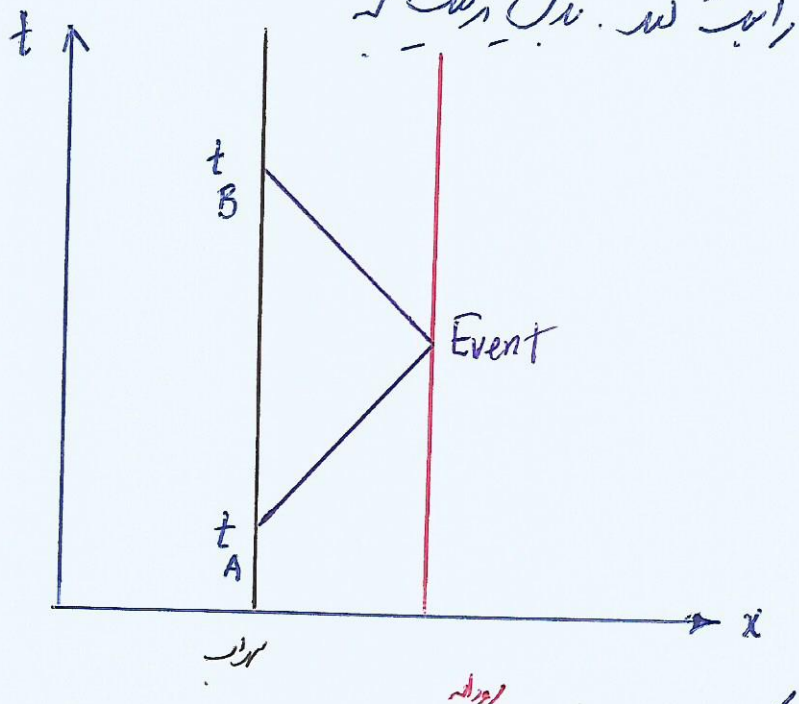


سرا سب در زمان $t_A$ یک پالس نوری می‌فرستد و آن را در زمان $t_B$ دریافت می‌کند.

در نتیجه مختصه رویداد برخورد پالس با آینه به صورت زیر است.

$$t_E = \frac{t_A + t_B}{2}$$

توجه کنید که سرعت نور را واحد در نظر گرفته‌ایم.

$$x_E = \frac{t_B - t_A}{2}$$

سپس با اندیشه ۴ ناظر که در فاصله هوا از یکدیگر قرار دارند و با داشتن پالس نوری و اندیشه می‌توان مختصات مشکله فضا-زمان را به دست آورد و خطوط هم‌زمانی را ترسیم کرد.

سوال مورد بحث این است که اگر فرد حامل تصمینه با سرعت ثابت $v$ نسبت به دستگاه سکون حرکت کند آیا باز ساعت‌های سهراب، سیاوش را همزمان می‌بیند

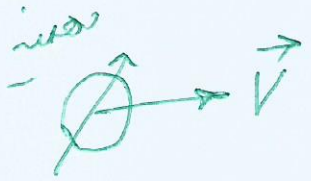


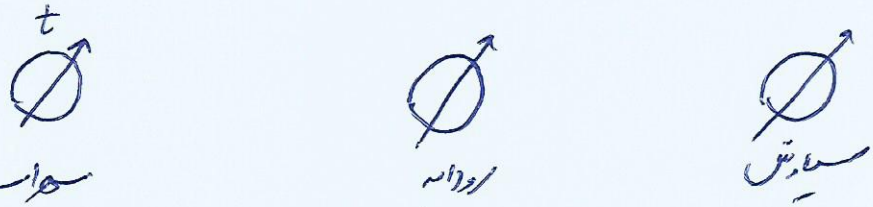


و میان دو رخداد هم‌زمانی سهراب، سیاوش کدام اندیشه تصمینه چگونه خواهد بود؟

برای حل مسئله اول شکل فضا-زمان را ترسیم کنید (برای حل مسائل مشابه خاص)

مهم است که شکل رسم کنیم

دوم: تصمینه از سهراب، سیاوش درخواست دارد که همراه او با سرعت ثابت $v$ حرکت کنند. چون برای ترسیم خطوط هم‌زمانی به ۴ ناظر احتیاج داریم.

۴) سرباز در موقعیت ۰، تصمیم در موقعیت ۱ و سیاهپوستان در موقعیت ۲ در ایستگاه که قرار دارند و با سرعت $v$ شروع به حرکت می‌کنند. نمودار فضا-زمان به صورت زیر ترسیم می‌شود.

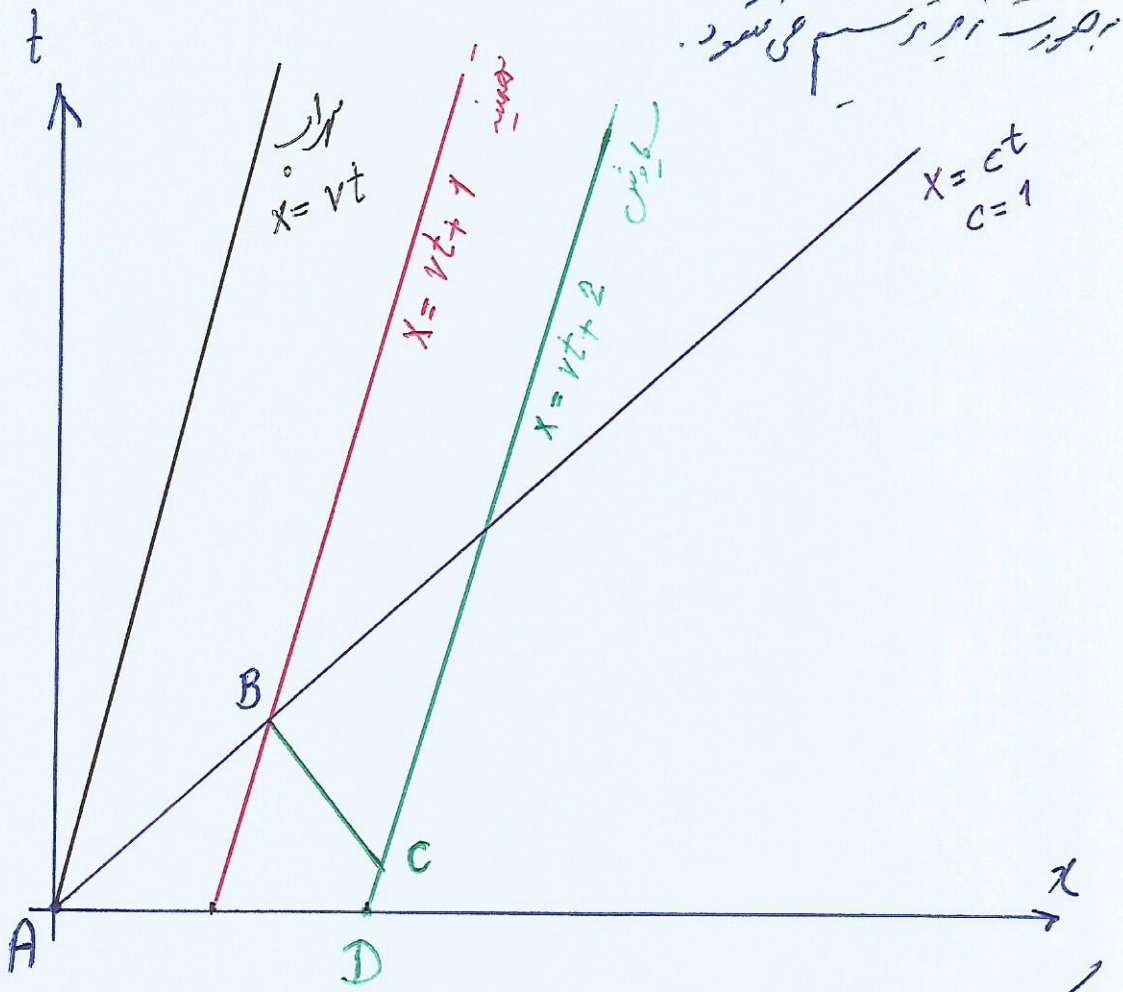


توجه کنید که ۳ ناظر در فواصل کنار هم قرار دارند. در رویداد A، سرباز پالس نوری را برای تصمیم ارسال می‌کند. سؤال سیاهپوستی با سرباز همزمان است.

رویداد B، رویدادی است که تصمیم پالس را دریافت کرده است.

سؤال: مختصه B چیست؟ جواب ساده: محل تقاطع نمودار حرکت خط

$x = t$ نور

$x = vt + 1$ خط حرکت تصمیم

$\Rightarrow vt + 1 = t \rightarrow t = \frac{1}{1 - v}$

$x = \frac{1}{1 - v}$

8 —

$B\left(t=\frac{1}{1-v}, x=\frac{1}{1-v}\right)$ مختصات رویداد B را داراست.

سؤال: حال چه پرتو نوری از طرف سفینه‌ی پیش، همزمان به مقصد می‌رسد؟

جواب این سؤال ساده است. نور همواره روی خطوط $45^\circ$ حرکت می‌کند. درنتیجه پالس را مقصد می‌تواند به سوی سفینه‌ی پیش ارسال کند.

پالس سبز رنگ حال خط سیاه‌رنگ را در نقطه C قطع می‌کند. نکته جالب این که نقطه هم‌زمان رویداد A برای ناظر در حال حرکت با سرعت $v$، نقطه C است، نه نقطه D !؟ هدف بعدی این است که مختصه نقطه C را بیابیم.

پس کافی است پالس نوری سبز رنگ را با حال خط سیاه‌رنگ قطع دهیم.

ثابت

حال خط پالس نوری $x + t = cte$

پرتوهای نوری با زاویه $-45^\circ$

حال خط سیاه $x = vt + 2$

نکته جالب این که نقطه B بر روی پالس است و

$x = t = \frac{1}{1-v}$

درنتیجه $x + t = \frac{2}{1-v}$

9/ دو معادله به صورت زیر است و حال باید $x$ و $t$ را به دست بیاوریم.

$$(1)\ x+t=\frac{2}{1-v} \quad \Rightarrow\ vt+2+t=\frac{2}{1-v}$$

$$(2)\ x=vt+2 \quad \Rightarrow\ t(v+1)=\frac{2}{1-v}-2=\frac{2-2+2v}{1-v}=\frac{2v}{1-v}$$

در نتیجه: $\boxed{t=\frac{2v}{1-v^2}}$

حال این $t$ را در رابطه (2) جایگذاری می‌کنیم.

$$x=vt+2=v\,\frac{2v}{1-v^2}+2=\frac{2v^2+2-2v^2}{1-v^2}=\frac{2}{1-v^2}$$

$$\boxed{x=\frac{2}{1-v^2}}$$

پس مختصه رویداد $C$ برابر است با $C:\left(t=\frac{2v}{1-v^2}, x=\frac{2}{1-v^2}\right)$ حال ببینیم آیا $t=xv$ ؟

این معادل خطی است که با شیب $v$ در دستگاه $x$ ـ $t$ رسم شده است و این خط هم زمانی با رویداد $A$ است. اگر بخواهیم تصمیم بگیریم که این را زمان صفر اعلام کنند $t=0$ به این منظور است که محور $x'$ را به دست آوردیم.

10/

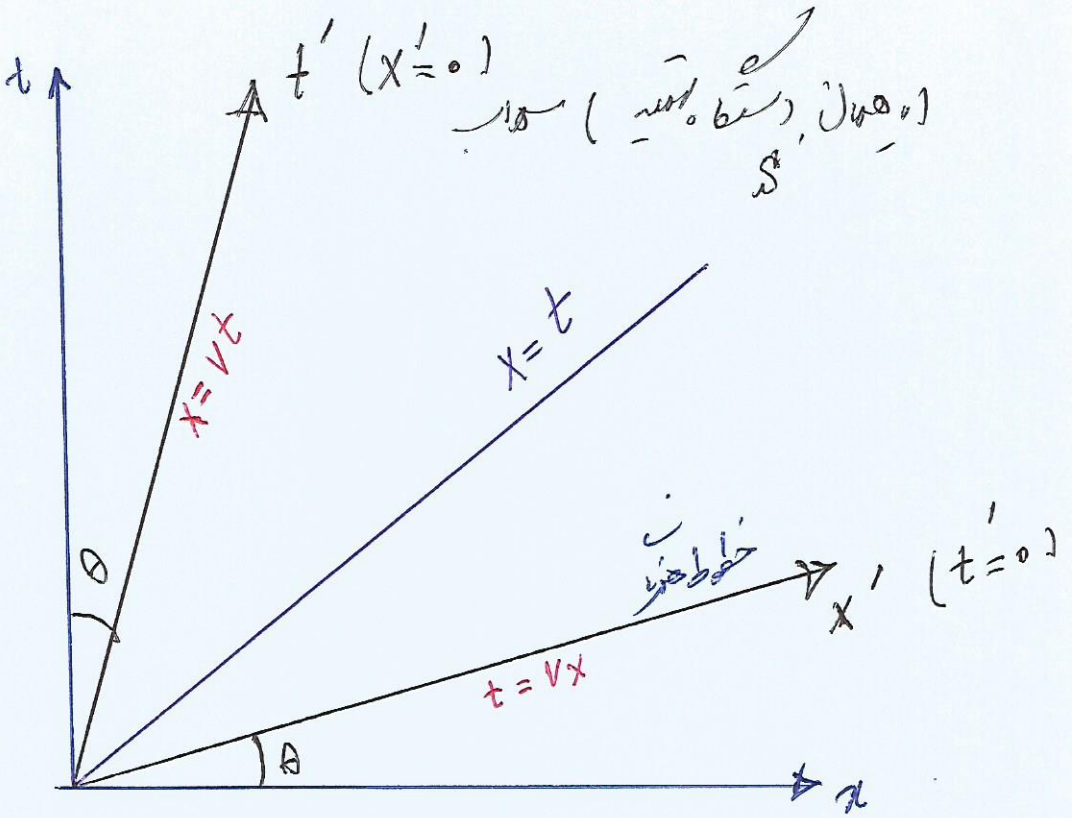


این نمودار حالب است. $x=t$ بیانگر نور برای هر دو دستگاه مختصات است. تفاوتی بر حسب خط $x=t$ در دو طرف نمودار (برای شیء غیر پرتو نور) وجود دارد. خطوط هم‌زمان موازی محور $x'$ خطوط هم‌مکان موازی محور $t$ خواهد بود.

پرتو نور برای دستگاه $S'$ با خط $x'=t'$ است. خطوط هم‌زمان و هم‌مکان را در شکل زیر رسم کنید.

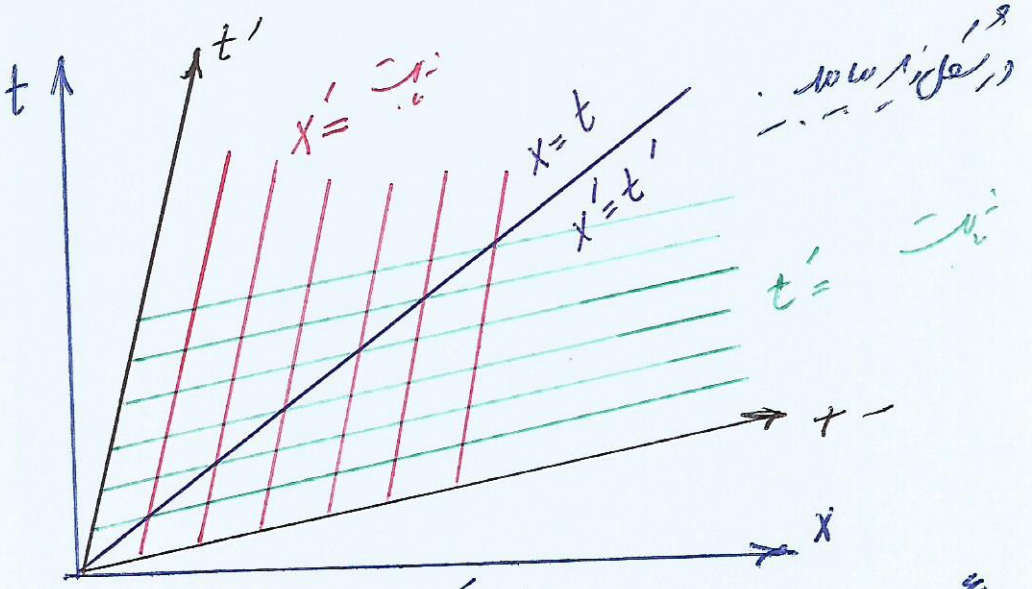


سؤال مهم: نسبیت بین دو دستگاه $S$ و $S'$ چیست؟